ESTA ES LA HISTORIA DE UNOS POCOS NÚMEROS MAYORES DE 10 A LOS QUE LES GUSTA PRESENTARSE DE MUY DIVERSAS FORMAS. ¿ME PODRÍAS DECIR QUÉ NÚMEROS SON? ¡ÁNIMO Y A CONTAR!

10 20 30

40 50 60 70

80 90 100

Desde hace mucho tiempo este número está contento. Fíjate bien y cuenta sin demora, que quiero que me lo digas antes de una hora.

Mira qué ocurrencia. Los almendrucos se han convertido en palitos. ¡Anda, cuenta con paciencia!

¡Vaya, vaya! El dinero siempre está presente. Seguro que esta cantidad la tienes en tu mente.

¡Pues, sí! El dinero es lo que tiene. A veces se repite y despista al que no se detiene.

Ya me he cansado de tanta pasta. Ahora me voy a la madera. ¡Mira que son pequeñas, pero cuánto cuentan las regletas!



¡Jo, qué listos! Pues, ahora verás: te lo cambio y más difícil lo tendrás.

Pero, ¡qué atrevidos! Pues, ahora en fila van, y ya te digo que ni en 2 minutos las vas a contar.

¡Ja, ja! ¿Creías que podías conmigo? Si cuentas esto bien, es que eres muy hábil también.

¡Hala! ¡Te has pasado! ¡Si de estos nunca me han dado!

Tampoco es tan difícil. Parece un cuadrado, con una puerta y dos ventanas. Todo junto, ¿cuánto habrá costado?

Mi amiga Aroa me dio 10. Mi amigo William, otros 10 y mi amiga Ayla los que están sueltos. ¿Cuántos palitos tengo?

Si a los palitos que tenía antes les añado otros 3, mira tú por dónde que a este número llegaré.

¡Otra vez! De los palitos que tenía, mi amigo Pablo me ha cogido 3. ¿Ahora cuántos tendré?



Ayer tenía en la hucha 20 euros. Esta mañana me visitó mi abuelo y me dio unas monedas. ¿Cuántos euros tengo ahora?

Mi amiga Claudia me dio los almendrucos de la bandeja blanca. Mi amigo Alejandro, los del plato amarillo y mi amiga María, los del plato azul. ¿Cuántos almendrucos tengo para comer?

Si te gusta contar de 2 en 2, no dejes pasar la oportunidad. Si descubres la cantidad, será tu felicidad.

Mi amiga Alba me ha dado tantos caramelos como la regleta de arriba y mi amiga Ainara me ha dado los mismos que Alba. Yo tenía los caramelos blancos. Ahora, ¿cuántos tengo?



Ayer fue el cumpleaños de mi hermano mayor. Mis abuelos le dieron el billete más grande y mis tíos, el billete más pequeño. ¿Cuánto dinero metió en su hucha?

¡Qué bonito! Este número es bien facilito. Usa bien los ojos y pronto lo hallará tu cerebrito…



¡Oye, oye! Que este número ya ha salido. ¿O era parecido?...

Mi amigo Álex me ha dado 3 platos con almendrucos. Todos tienen la misma cantidad. Si me los meto en el bolsillo, ¿cuántos serán?

Tanto billete ya me va a marear. Si cuentas las decenas al billete llegarás. Y si juntas billete y palitos, ¿a qué número grandísimo llegarás?...

Y con esta vamos a acabar. Manolo me dio la torre amarilla. Begoña me regaló la torre roja. Y yo cogí la torre verde. Todas juntos, ¿cuántos policubos serán?

¡Enhorabuena!

Lo habéis resuelto con agilidad.

¡Ánimo y a continuar así!